

EXAMEN UNIDAD 1 *Me picó un mosquito* (SEIS MIRADAS Nº 6)

COLOREA LOS DIBUJOS QUE APARECEN

1. Características de los insectos (repasa las preguntas): ¿cómo son?, ¿tienen alas?, ¿cuántas patas?, ¿cómo nacen?... Desarrolla tu respuesta.

¿Cómo son?

¿Tienen alas?

¿Cuántas patas?

¿Cómo nacen?

Escribe ejemplos de insectos

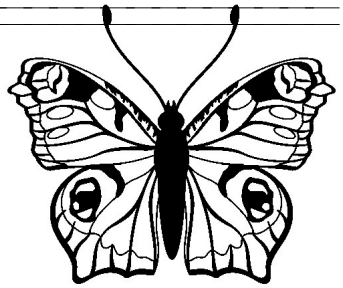

2. Responde: (repasa las preguntas)

- ¿Desde cuándo viven los insectos en la Tierra?

- Nombra algún insecto útil para las personas y di por qué.

Didactilandia PT

- Escribe insectos que vuelan:

3. Completa con m o p

ca___po	*le__to*	*se___da*	*lá___para*
ca___ción	*so___brero*	*tra___poso*	*a___plio*
bo___bona	*a___tes*	*tro___peta*	*asu___to*

4. Dictado

- Escribe nombres de cosas que aparezcan en el dictado

5. Dibuja un insecto y señala las partes de su cuerpo.

Didactilandia PT

6. Coloca y calcula (en el folio de las operaciones):

135 x 4 = _____

349 x 3 = _____

523 x 2 = _____

378 x 4 = _____

234 – 129 = _____

456 – 38 = _____

123 + 34 + 990 = _____

980 + 546 = _____

7. Completa (realiza las cuantas necesarias en el folio de las operaciones)

345 - _____ = 23

_____ - 159 = 207

4 x ____ = 24

____ x 5 = 10

245 + _____ = 967

_____ + 39 = 183

3 x 9 = _____

3 x ____ = 21

8. Rodea las restas que estén mal y pon una B e las que estén bien. Para comprobarlo haz la prueba de la resta donde te indica la flecha.

$$\begin{array}{r} 704 \\ -\ 369 \\ \hline 335 \end{array} \Rightarrow$$

$$\begin{array}{r} 917 \\ -\ 58 \\ \hline 749 \end{array} \Rightarrow$$

$$\begin{array}{r} 842 \\ -\ 556 \\ \hline 275 \end{array} \Rightarrow$$

9. Cuenta hacia atrás de tres en tres hasta llegar al 830.

890 – 887 - _____

_____

_____

10. Completa con letra o con números según corresponda:

347 → _____

didactilandiaPT

_____ → *cuatrocientos nueve*

501 → _____

984 → _____

_____ → *doscientos treinta*

11. Tengo 4 cajas de caramelos. Si en cada caja hay 35 caramelos, ¿cuántos caramelos tengo en total?

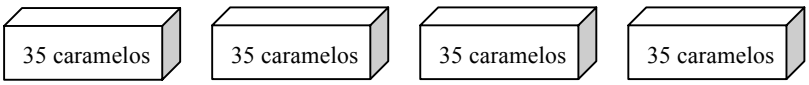

12. Lucía se ha comprado un libro que le ha costado 18 euros. Si ha pagado con un billete de 50 euros, ¿cuánto dinero le devolverán? COLOREA EL LIBRO

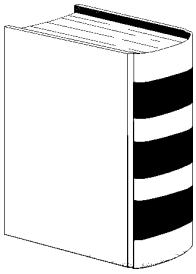

18 €

13. Hay 17 niños y 9 niñas en mi clase. ¿Cuántos alumnos hay en total?

DidactilandiaPT

FOLIO DE OPERACIONES

ACTIVIDAD 6 Y 7

DidactilandiaPT

DICTADO

Las personas aprovechan la miel que fabrican las abejas. Las abejas hacen sus panales en árboles, rocas y lugares difíciles de alcanzar. Las personas han construido colmenas para que las abejas coloquen allí sus enjambres y fabriquen la miel.



Didac PT